PREFEITURA MUNICIPAL DE TARUMÃ

Processo Seletivo Nº 002/2022

Edital 052/2022

PROVA OBJETIVA

ATENDENTE DE CONSULTÓRIO DENTÁRIO

Você está recebendo a FOLHA DEFINITIVA DE RESPOSTAS e o CADERNO com 40 questões. Leia cuidadosamente cada questão e escolha a resposta que você considera correta.

Preencha com seu NOME e número do RG os espaços indicados na capa deste caderno. Assine a FOLHA DEFINITIVA DE RESPOSTAS com caneta de tinta azul ou preta.

Marque, na FOLHA DEFINITIVA DE RESPOSTAS, com caneta de tinta azul ou preta, a letra correspondente à alternativa que você escolheu para cada uma das questões.

A duração da prova é de 3 horas.

Você só poderá entregar a FOLHA DEFINITIVA DE RESPOSTAS e sair do prédio depois de decorrida 1 hora do início da prova.

Você poderá levar a FOLHA INTERMEDIÁRIA DE RESPOSTAS no final deste caderno.

Ao sair, NÃO será permitido levar o CADERNO DE QUESTÕES.

Nome do candidato:

RG:

Fundação Educacional do Município de Assis

14-05-22 Tarde

LÍNGUA PORTUGUESA

Instrução: Leia o conto *A Beleza Total*, de Carlos Drummond de Andrade, para responder às questões de **01** a **04**.

A beleza de Gertrudes _____ todo mundo e a própria Gertrudes. Os espelhos pasmavam diante de seu rosto, recusando-se a refletir as pessoas da casa e muito menos as visitas. Não ousavam abranger o corpo inteiro de Gertrudes. Era impossível, de tão belo, e o espelho do banheiro, que se atreveu a isto, partiu-se em mil estilhaços.

A moça já não podia sair *** rua, pois os veículos paravam *** revelia dos condutores, e estes, por sua vez, perdiam toda capacidade de ação. Houve um engarrafamento monstro, que durou uma semana, embora Gertrudes houvesse voltado logo para casa.

O Senado aprovou lei de emergência, proibindo Gertrudes de chegar *** janela. A moça vivia confinada num salão em que só penetrava sua mãe, pois o mordomo se suicidara com uma foto de Gertrudes sobre o peito.

Gertrudes não podia fazer nada. Nascera assim, este era o seu destino fatal: a _____ beleza. E era feliz, sabendo-se incomparável. Por falta de ar puro, acabou sem condições de vida, e um dia _____ os olhos para sempre. Sua beleza saiu do corpo e ficou pairando, imortal. O corpo já então enfezado de Gertrudes foi recolhido ao _____, e a beleza de Gertrudes continuou cintilando no salão fechado a sete chaves.

(Fonte: www.tyrannusmelancholicus.com.br)

01. Em relação às estruturas linguísticas e semânticas do texto, assinale a afirmativa correta.

(A) A conjunção "pois", em "... pois o mordomo se suicidara", introduz uma oração explicativa.
(B) Em "Nascera assim, este era o seu destino fatal:", os dois-pontos introduzem a fala de uma personagem.
(C) As condições impostas à Gertrudes ocasionavam a melancolia e infelicidade da moça.
(D) Em "Não ousavam abranger o corpo inteiro de Gertrudes", a forma verbal "ousavam" retoma, realizando uma concordância ideológica, o sujeito "todo mundo".

02. Completam corretamente e na sequência, em conformidade com a ortografia oficial e o sentido contextual, as lacunas deixadas no texto:

(A) fasinava... estrema... serrou... jazico.
(B) facinava... extrema... serrou... jasigo.
(C) fascinava... extrema... cerrou... jazigo.
(D) facinava... estrema... cerrou... jasico.

03. Analisando o sujeito em "Os espelhos pasmavam diante de seu rosto...", é correto classificá-lo como:

(A) Inexistente.
(B) Composto.
(C) Indeterminado.
(D) Simples.

04. No texto, foram deixados três espaços preenchidos com o símbolo *** que devem ser substituídos pelas preposições adequadas, segundo a sintaxe de regência de cada verbo, na variante padrão da língua portuguesa. Marque a alternativa que apresenta corretamente e na sequência estas substituições.

(A) à... à... à.
(B) na... a... na.
(C) a... em... na.
(D) a... a... a.

05. Analise os itens que se seguem:

I. **Haja vista o meu desempenho no trabalho**, fui promovido.

II. **Já que o dia estava lindo**, saiu para passear no parque.

III. Nunca conseguiu esquecê-la, **porquanto o amor ainda era intenso**.

São exemplos de orações subordinadas adverbiais causais o que se afirma **apenas** em:

(A) I, II e III.
(B) I e II.
(C) II e III.
(D) I e III.

MATEMÁTICA

06. Uma figura retangular de área igual a 256 cm^2 possui as medidas de X cm e 4x cm. A diferença entre a base e a altura desta figura equivale a:

(A) 24 cm.
(B) 26 cm.
(C) 28 cm.
(D) 30 cm.

07. Determine a altura de um reservatório d'água na forma de um cilindro reto de volume de 42.000 litros e área da base de 12 m^2.

(A) 35 m.
(B) 45 m.
(C) 4,5 m.
(D) 3,5 m.

08. Com um desconto de 7%, uma camiseta custa R$ 37,20 para pagamento à vista. Logo, é correto

afirmar que o mesmo produto, antes do desconto, custaria

(A) R$ 39,80.
(B) R$ 40,00.
(C) R$ 38,90.
(D) R$ 45,00.

09. Alice toma dois medicamentos, sendo o medicamento A a cada 4 horas e o medicamento B a cada 6 horas. Se ela tomou os dois juntos às 16 horas, é correto afirmar que ela tomará os dois juntos novamente às

(A) 10 h.
(B) 20 h.
(C) 04 h.
(D) 12 h.

10. Quando Pedro nasceu, o pai dele aplicou R$ 12.000,00 em um investimento em regime de juros simples a 1,5% a.m. com o objetivo de resgate quando Pedro fizesse 18 anos. O valor esperado para o término do período é de

(A) R$ 50.880,00.
(B) R$ 62.200,00.
(C) R$ 47.300,00.
(D) R$ 74.220,00.

CONHECIMENTOS SOBRE TARUMÃ

11. Com base nas simbologias presentes no brasão de Tarumã, é correto afirmar que a coroa mural representa

(A) amor, tradição guerreira e velocidade.
(B) a emancipação política.
(C) fé cristã e martírio.
(D) os desbravadores brasileiros.

12. Os versos “Tarumã é terra de lutadores/ Em nossa Pátria está entre vencedores/ Verdadeiros quinhões de encantos/ Seu verde se perde nos campos” foram escritos por

(A) Maria Alice Fernandes.
(B) Adolfo Fischer.
(C) Silas Orvellas.
(D) D. Aninha.

13. Sobre os fatos históricos pertencentes à origem de Tarumã, marque a alternativa correta.

(A) Em 1993, a Vila Lex foi elevada a Distrito e tomou o nome de um rio que nascia na região: Tarumã.
(B) José Pires, na década de 40, adquiriu a fazenda Nova América e fundou a primeira usina de açúcar da região.
(C) A formação original da primeira banda de música de Tarumã, em 1920, “A furiosa”, era: Franz Labs, Paulo Hummig, Ilo Malagoli, Antonio da Silva, Otto Herzog, José Machado e Gustavo e Adolfo Fischer.
(D) Tarumã obteve sua emancipação que resultou na implantação de sua Prefeitura no dia 1º de janeiro de 1.993, sendo empossado como prefeito nessa data o Sr. Oscar Gozzi.

14. Observe a imagem a seguir e assinale a alternativa que apresenta o nome deste ponto turístico de Tarumã.

(Fonte: taruma.sp.gov.br)

(A) Skifish.
(B) CIEC.
(C) Paço das Águas.
(D) Fonte dos Sonhos.

15. No dia 10 de julho de 2020, foi realizada, em Tarumã, a 1ª Corrida Digital, com 80 atletas participantes. O evento foi organizado pelo Esporte 100% em parceria com a TV COM Running. O evento marcou

(A) a reinauguração do Parque Vicente Benelli.
(B) o dia Internacional do Desafio.
(C) o aniversário do município de Tarumã.
(D) a data de falecimento do pioneiro na história de Tarumã, Gilberto Lex.

CONHECIMENTOS ESPECÍFICOS

16. A placa bacteriana, também conhecida como biofilme ou placa dental, refere-se à aglomeração de bactérias da microflora oral sobre a superfície dentária. Posteriormente esse biofilme irá endurecer (mineralizar) e originar:

(A) Tártaro.
(B) Cárie.
(C) Obturação.
(D) Canal.

17. A medida mais direta e abrangente de controle e prevenção da cárie dentária e de doenças gengivais é:

(A) Higiene bucal: escovação e uso do fio dental.

(B) Tartarectomia.
(C) Canal.
(D) Obturação.

18. Sobre as técnicas de escovação, indique a alternativa correta:

(A) Técnica de Bass: empunhar a escova e, com os dentes cerrados, fazer movimentos circulares na face vestibular de todos os dentes superiores e inferiores, indo do último dente do hemiarco a outro. Nas faces palatinas ou linguais, os movimentos também são circulares, com a boca aberta; nas faces oclusais e incisais, os movimentos são no sentido anteroposterior.
(B) Técnica de Stillman modificada: colocar a escova com o longo eixo das cerdas lateralmente contra a gengiva e deslizá-la de gengival para oclusal ou incisal. Quando as cerdas estiverem no ponto de contato dos dentes, fazer movimentos vibratórios. Repetir esse movimento várias vezes para cada grupo de dentes que está sendo escovado. O movimento é igual para as arcadas superior e inferior e para as superfícies vestibular e lingual.
(C) Técnica de fones: durante a escovação, forçar as cerdas diretamente no sulco gengival, num ângulo de 45 graus com o eixo do dente. Forçar as cerdas, o máximo possível, para dentro do sulco e fazer um movimento curto para frente e para trás, vibratório, deslocando todo o resíduo existente na área; conforme é movimentada a escova, os dentes e a gengiva vão sendo limpos. Para escovar as superfícies oclusais, mover a escova para frente e para trás.
(D) Técnica de Stillman modificada: durante a escovação, forçar as cerdas diretamente no sulco gengival, num ângulo de 45 graus com o eixo do dente. Forçar as cerdas, o máximo possível, para dentro do sulco e fazer um movimento curto para frente e para trás, vibratório, deslocando todo o resíduo existente na área; conforme é movimentada a escova, os dentes e a gengiva vão sendo limpos. Para escovar as superfícies oclusais, mover a escova para frente e para trás.

19. São manchas, em geral esbranquiçadas, que aparecem nos dentes por excesso de flúor, ingerido durante o período de formação desses dentes:

(A) White teeth.
(B) Fluorose dental.
(C) Cárie fluoretada.
(D) Fluoretanina branca.

20. Sobre os métodos de aplicar o flúor:

(A) São três: oral, gengival e inalatório.
(B) São dois: sistêmico e tópico.
(C) São dois: ativo e inativo.
(D) São três: tipo I, tipo II, tipo III.

21. Os fatores etiológicos determinantes que devem ser levados em consideração para o desenvolvimento da cárie dentária são:

(A) Biofilme; dieta; saliva; flúor; hábitos de higiene.
(B) Dieta; saliva; anemia; febre.
(C) Creme dental; antisséptico bucal; hemorragias; lesões bucais.
(D) Idade; dieta rica em açúcar; abrasão ao escovar os dentes.

22. Sobre a gengivite, é correto afirmar:

(A) Retrata uma resposta inflamatória dos tecidos gengivais ao acúmulo de bactérias que colonizam o sulco gengival através do biofilme.
(B) Inicialmente a gengiva não apresenta sangramento.
(C) Ocorre diminuição do volume da gengiva e alteração da sua cor.
(D) A higienização não tem potencial para diminuir a inflamação.

23. Os materiais restauradores dentários mais usados pela odontologia atualmente são:

(A) Cimento de ionômero de vidro; Cimentos de fosfato de zinco; Adesivos dentinários; Amálgama de prata; Ligas metálicas; Porcelana.
(B) Cimento de ionômero de vidro; Amálgama de prata; Resinas compostas; Resinas acrílicas; Ligas metálicas; Porcelana.
(C) Cimentos de fosfato de zinco; Resinas compostas; Resinas acrílicas; Ligas metálicas; Porcelana.
(D) Cimento de ionômero de vidro; Amálgama de prata; Resinas compostas; Resinas acrílicas; Vernizes cavitários; Hidróxido de cálcio.

24. O amálgama dental é produzido pela mistura do mercúrio líquido com partículas sólidas de prata. É um material restaurador muito utilizado na odontologia, indicado para:

(A) Restaurações de dentes posteriores.
(B) Cimentação de próteses como coroas ou pontes e, também, de aparelhos ortodônticos.
(C) Selamento de cicatrículas e fissuras.
(D) Restaurações em locais do dente que não estão submetidos a uma grande força de mastigação.

25. O alginato é um dos materiais mais usados na moldagem odontológica. O grande emprego dos alginatos resulta de:

(A) Facilidade de mistura e manipulação.
(B) Imprecisão, se corretamente manipulado.
(C) Alto custo.
(D) Inflexibilidade do molde geleificado.

26. O gesso é o material de escolha para a confecção dos modelos, após a realização das moldagens. É composto de sulfato de cálcio hemi-hidratado (CaSO4. H2O), solúvel em água, obtido através do processo de calcinação da gipsita, mineral comum na natureza. São classificados por tipos, conforme sua precisão, para as diversas modalidades de trabalhos protéticos. Indique a alternativa que descreve corretamente os tipos de gesso:

(A) Tipo I - Gesso Extra Duro, de expansão modificada.
(B) Tipo II - Gesso Areia.
(C) Tipo III - Gesso comum ou Paris.
(D) Tipo IV - Gesso Pedra Especial modificado.

27. Na confecção de modelos de estudo em gesso, a relação água/pó para gesso comum será de:

(A) 0,5% - 50 ml de água para 100 g de gesso.
(B) 0,4% - 40 ml de água para 100 g de gesso.
(C) 0,3% - 30 ml de água para 100 g de gesso.
(D) 0,2% - 20 ml de água para 100 g de gesso.

28. Os instrumentais em odontologia têm como função possibilitar ao odontólogo realizar os procedimentos de atendimento ao paciente. O instrumental a seguir é:

(A) Sonda exploradora.
(B) Pinça de algodão.
(C) Escavador de dentina.
(D) Destaca periósteo.

29. A figura a seguir apresenta:

(A) Espelho clínico, escavador de dentina, espátula n. 1.
(B) Espelho clínico, destaca periósteo, arco para isolamento absoluto.
(C) Espelho clínico, pinça de algodão, sonda exploradora.
(D) Espelho clínico, pinça porta-grampo de isolamento, colgadura.

30. A figura a seguir apresenta o instrumental utilizado para remoção de osso, que se chama:



(A) Pinça goiva.
(B) Pinça de dente de rato.
(C) Pinça porta-agulha.
(D) Pinça hemostática.

31. A sonda milimetrada é utilizada para:

(A) Afastar o tecido do campo operatório.
(B) Remodelar o osso.
(C) Separar a gengiva do dente e do osso.
(D) Medição do sulco gengival.

32. São doenças passíveis de transmissão durante o atendimento odontológico:

(A) Sífilis; Gonorreia; Tuberculose; Hepatite viral.
(B) Difteria; Câncer; Sarampo; Gripe.
(C) Caxumba; Rubéola; Influenza; Diabetes.
(D) Herpes; Catapora; HIV; Hipertensão.

33. O processamento de artigos compreende a limpeza e a desinfecção e/ou esterilização de artigos. Sobre a limpeza, indique a alternativa correta.

(A) É a remoção de sujidades, com o objetivo de reduzir a carga microbiana, matéria orgânica e contaminantes de natureza inorgânica, de modo a garantir a desinfecção, esterilização e a manutenção da vida útil do artigo.
(B) A limpeza deve ser realizada exclusivamente de modo manual, por meio de ação física e usando escova, pia, detergente e água corrente.
(C) O enxague dos materiais deve ser realizado com água esterilizada, garantindo a total retirada das sujidades e do produto utilizado na limpeza.
(D) Deve ser realizada utilizando os EPIs apropriados: luva de procedimentos, gorro, máscara, óculos de proteção, avental e calçados fechados.

34. Sobre a esterilização dos artigos, indique a alternativa correta:

(A) É o processo que visa diminuir as formas de vida microbiana presentes, por meio de processos físicos ou químicos.
(B) A autoclave é o meio mais confiável e deve ser o método de primeira escolha em faculdades, consultórios, clínicas e hospitais, para se esterilizar todo e qualquer material a ser utilizado no atendimento odontológico à população.
(C) O material, devidamente embalado, deve ser colocado na câmara da autoclave desligada, não ultrapassando 2/3 de sua capacidade total e sem encostar-se às laterais, dispondo-se os pacotes de modo que o vapor possa circular livremente e atinja todas as superfícies do material.
(D) Artigos termossensíveis devem ser esterilizados com método físico, de modo a garantir a utilização dos mesmos, livrando a população de riscos de infecções.

35. A figura a seguir apresenta um documento que deve constar no prontuário odontológico, que é:

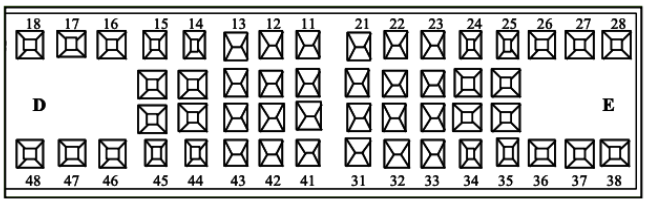

(A) Odontograma.
(B) Exame de periodonto (CPI).
(C) Índice de placa visível (IPV).
(D) Prontuário eletrônico.

36. O Índice de Placa Visível (IPV) é utilizado para verificar através da análise clínica da presença ou ausência de placa bacterina na superfície dos dentes. A higiene bucal será considerada satisfatória quando o resultado for:

(A) 0 a 5%.
(B) 0 a 10%.
(C) 0 a 15%.
(D) 0 a 33%.

37. Analise a figura a seguir e indique a alternativa que descreve o nome do equipamento correspondente:

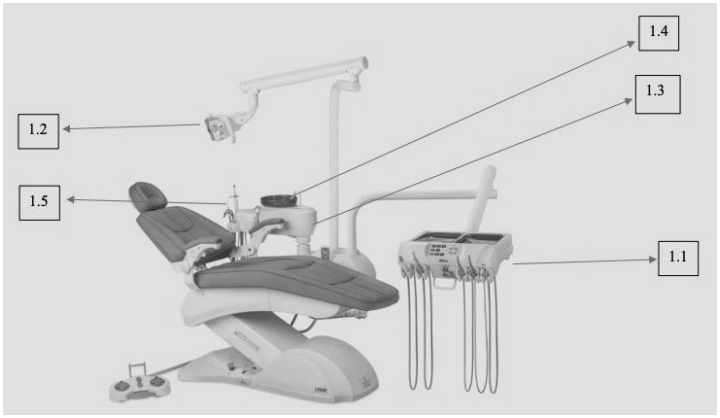

(A) 1.1 = seringa tríplice, canetas.
(B) 1.2 = unidade auxiliar.
(C) 1.3 = cuspideira.
(D) 1.4 = sistema de sucção.

38. Os artigos críticos são:

(A) Aqueles que penetram através da pele e mucosas, atingindo tecidos sub epiteliais.
(B) Aqueles que entram em contato com apele não íntegra ou com mucosas íntegras.
(C) Aqueles com valor elevado, denominados também de “alto custo”.
(D) Aqueles que dependem de autorização prévia da secretaria da saúde, do enfermeiro e do paciente para serem utilizados.

39. A Monitorização do processo de esterilização consiste em verificar a eficácia dos métodos de esterilização. Sobre esse assunto, indique a alternativa correta:

(A) Os indicadores mecânicos são fitas de papel impregnadas com uma tinta termocrômica que mudam de cor quando expostas à temperatura elevada por certo tempo.
(B) Indicador químico é considerado o padrão ouro de monitorização, é aplicação dos próprios esporos impregnados em tiras de papel e eliminação dos mesmos.
(C) Indicadores biológicos estão relacionados ao equipamento de esterilização e devem contemplar os registros de manutenção preventiva e corretiva (tempo, temperatura e pressão) registros dos problemas observados durante a prática diária e registros de validação do processo realizados periodicamente.
(D) Os indicadores são mecânicos, físicos, químicos e biológicos.

40. A figura a seguir apresenta uma mini incubadora e ampolas do teste:

(A) Mecânico.
(B) Físico.
(C) Químico.
(D) Biológico.

FOLHA INTERMEDIÁRIA DE RESPOSTAS

	A	B	C	D
01	▢	▢	▢	▢
02	▢	▢	▢	▢
03	▢	▢	▢	▢
04	▢	▢	▢	▢
05	▢	▢	▢	▢
06	▢	▢	▢	▢
07	▢	▢	▢	▢
08	▢	▢	▢	▢
09	▢	▢	▢	▢
10	▢	▢	▢	▢
11	▢	▢	▢	▢
12	▢	▢	▢	▢
13	▢	▢	▢	▢
14	▢	▢	▢	▢
15	▢	▢	▢	▢
16	▢	▢	▢	▢
17	▢	▢	▢	▢
18	▢	▢	▢	▢
19	▢	▢	▢	▢
20	▢	▢	▢	▢
21	▢	▢	▢	▢
22	▢	▢	▢	▢
23	▢	▢	▢	▢
24	▢	▢	▢	▢
25	▢	▢	▢	▢

	A	B	C	D
26	▢	▢	▢	▢
27	▢	▢	▢	▢
28	▢	▢	▢	▢
29	▢	▢	▢	▢
30	▢	▢	▢	▢
31	▢	▢	▢	▢
32	▢	▢	▢	▢
33	▢	▢	▢	▢
34	▢	▢	▢	▢
35	▢	▢	▢	▢
36	▢	▢	▢	▢
37	▢	▢	▢	▢
38	▢	▢	▢	▢
39	▢	▢	▢	▢
40	▢	▢	▢	▢

RASCUNHO